

2.Sınıf 10.Hafta Değerlendirme Testi

Türkçe

Ogretmendolabi.com

1

Cümlelerdeki anlatımı güçlendirmek için iki varlık ya da durum arasında karşılaştırma yapılmasına benzetme denir. Benzetmeler "....., ..." sözcüğü kullanılarak yapılır.

Defterde verilen bilgide noktalı yere aşağıdakilerden hangileri yazılmalıdır?

A. ve, veya

B. gibi, kadar

C. örneğin, mesela

Ogretmendolabi.com

2

İstanbul'a ilk harfi daima büyük harfle başlayan kelimenin olduğu gemi ile gideceğim.



Buna göre kaptan aşağıdaki gemilerden hangisi ile İstanbul'a gidecektir?

A.

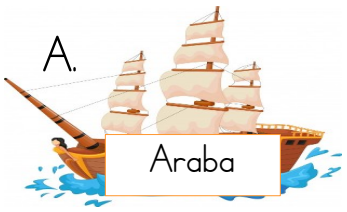

B.



C.



3

Aşağıdaki cümlelerin hangisinde benzetme vardır?

A. Öğretmenimin altın gibi bir kalbi var.

B. Tatilden sonra öğretmenler gününü kutlayacağız.

C. Kardeşim anneme benziyor.

4

Aşağıdaki cümlelerin hangisinde büyük harflerin kullanımı ile ilgili bir yanlışlık yapılmıştır?

A. 24 kasım öğretmenler günü için kutlama programı yaptık.

B. Sivas'tan sonra Ankara'ya gideceğiz.

C. 23 Nisan'da hangi gösteriyi yapacaksınız?

5



Değirmende yazılı olan kelimelerle anlamlı ve kurallı cümle oluşturulduğunda cümlenin 3. kelimesi hangisi olur?

A süzülüyordu

B. gökyüzünde

C. uçurtması



2.Sınıf 10.Hafta Değerlendirme Testi

Matematik

Ogretmendolabi.com

1



Yukarıdaki basket takımı 12'den başlayarak üçer ritmik sayma yapmışlardır. Fakat Can ve Cem söyleyecekleri sayıları unutmuşlardır. Bu durumda Can ve Cem hangi sayıları söylemelidir?

	Can	Cem
A)	27	33
B)	28	32
C)	27	30



28–25–22–19–.....–13–10

2 Tülin, geriye doğru ritmik sayma yaparken bir tanesini unutmuştur. Buna göre Tülin'in unuttuğu sayı hangisidir?

A. 15

B. 16

C. 17

3 Seçenekte verilen ritmik saymalardan hangisi farklıdır?

A. 36–32–28–24–20–16

B. 11–15–19–23–27–31–35

C. 26–22–18–14–10–6–4

4

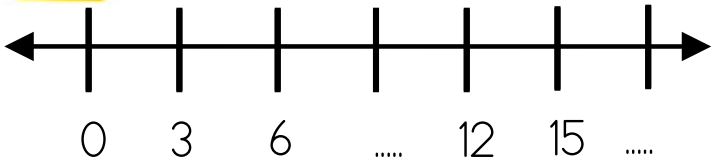

Gökhan sayı doğrusunu inceleyip eksik bırakılan yerleri tamamlayacaktır. Buna göre noktalı yerlere hangi sayıları yazmalıdır?

A. 9 – 18

B. 9 – 21

C. 8 – 18

5 Ali 12'den başlayarak dörder ritmik sayma yaptığında 4. saymada hangi sayıyı söyler?

A. 20

B. 24

C. 28

Ogretmendolabi.com



2.Sınıf 10.Hafta Değerlendirme Testi

Hayat Bilgisi

Ogretmendolabi.com

1



İnternette oluşturuduğumuz şifre, ...ile ilgili sınırlarımızdır.

Yukarıda noktalı yere hangisi yazılmalıdır?

A. kişisel bilgilerimiz

B. duygusal sınırlarımız

C. düşüncelerimiz

2 Aşağıdakilerden hangisi kişisel alan sınırlarını ihlal eden bir davranıştır?

A. Arkadaşımızın boyasını izin isteyerek almak

B. Arkadaşımıza lakap takıp onunla alay etmek

C. Sosyal medyada ailemizin çizdiği sınırların dışına çıkmamak

3 Aşağıda verilen ifadelerden hangisi yanlıştır?

A. Bize yakın mesafede durabilecek, kişilere kendimiz karar veririz.

B. Herhangi bir konuda karşımızdakiyle aynı fikirde olmadığımızı kendisine söyleyebiliriz.

C. Çevrim içi ortamlarda kullandığımız şifreleri en yakın arkadaşımızla paylaşabiliriz.

Ogretmendolabi

4



Parkta tanımadığımız biri yanımıza gelerek ailemizi tanıdığını söylerse ve bizi sallamak isterse ne yapmalıyız?

A. Bizi sallamasına izin vermeliyiz.

B. Kararlı bir şekilde 'Hayır!' demeli diretirse bağırarak yardım istemeliyiz.

C. Ailemizi tanıdığını söylediği için parkta beraber farklı oyunlar da oynamalıyız.

5 Aşağıdaki öğrencilerden hangisinin düşüncesi yanlıştır?

A. 

Tanımadığımız insanlara karşı 'Hayır!' demesini bilmeliyiz.

B. 

İnternette ailemizin çizdiği sınırlar dışına çıkabiliriz.

C. 

Başkasının odasına izin almadan girmemeliyiz.



2.Sınıf 10.Hafta Cevap Anahtarı

Cevap Anahtarı

Türkçe

1. B
2. C
3. A
4. A
5. B

Matematik

1. C
2. B
3. B
4. A
5. B

Hayat Bilgisi

1. A
2. B
3. C
4. B
5. B

2.SINIF SÜREÇ DEĞERLENDİRME 1.DÖNEM PAKETİ

SÜREÇ DEĞERLENDİRMELER VE ÖLÇEKLER





PDF OLARAK SATIŞTA!

ÖĞRETMEN DOLABI