Dedemin Köstekli Saati



Defne, o cumartesi sabahı erkenden uyandı. Annesi ve babasıyla birlikte köye, dedesinin yanına gidecekti. Öğleye doğru köye vardılar. Dedesi onları bahçedeki ceviz ağacının altında bekliyordu.

Yemekten sonra dedesi cebinden gümüş renkli, zincirli bir saat çıkardı. Defne merakla sordu:

– Dedeciğim, bu saat neden kolunda değil?

– Buna köstekli saat denir. Onu bana babam verdi. Eskiden insanlar saatlerini ceplerinde taşırlardı. Ben bu saati her akşam kurarım. Kurmayı unutursam durur.

Defne saati kulağına dayadı. Tik tak, tik tak... Saatin içinde sanki minik bir kalp atıyordu. Dedesi sözlerine devam etti:

– Zaman çok değerlidir yavrum. Geçen zaman bir daha geri gelmez. Bu yüzden onu iyi kullanmalıyız.

Defne akşam eve dönünce kendine günlük bir plan hazırladı. Ders çalışma, kitap okuma ve oyun saatlerini tek tek yazdı. Artık o da zamanını dikkatli kullanacaktı.

1 Aşağıdaki soruları okuduğunuz metne göre yanıtlayınız.

- Defne, cumartesi günü kimlerle birlikte nereye gitti?

.....

- Dedesi onları nerede bekliyordu?

.....

- Köstekli saati dedesine kim vermişti?

.....

- Dedesi saati kurmayı unutursa ne olur?

.....

- Defne eve dönünce ne hazırladı? Niçin?

.....

2 Metne göre doğru ifadelere "D", yanlış ifadelere "Y" yazınız.

( ) Defne köye akşam vardı.

( ) Saat gümüş renkli ve zincirliydi.

( ) Dedesi saati kolunda taşıyordu.

( ) Defne saatin sesini dinledi.

3 Metnin ana fikri aşağıdakilerden hangisidir? İşaretleyiniz.

☐ Köyler çok güzeldir.

☐ Zamanı iyi kullanmalıyız.

☐ Eski saatler bozulur.



3.Sınıf Hafta Sonu Ödevleri 10.Hafta

Türkçe

Ogretmendolabi.com

Geçmiş Zaman
İş yapılmış, bitmiştir.
Dün kitap okudum.
Kedi sütü içmiş.

Şimdiki Zaman
İş şu anda yapılmaktadır.
Şimdi kitap okuyorum.
Kedi sütü içiyor.

Gelecek Zaman
İş daha sonra yapılacaktır.
Yarın kitap okuyacağım.
Kedi sütü içecek.

1 Cümlelerin hangi zamanda olduğunu bulunuz ve uygun kutuya (✓) koyunuz.

Cümle	Geçmiş	Şimdiki	Gelecek
Annem mutfakta yemek pişiriyor.			
Yarın müzeye gideceğiz.			
Ali dün bisikletten düştü.			
Kardeşim odasında uyuyor.			
Dedem bahçeye fidan dikmiş.			
Haftaya doğum günümü kutlayacağım.			

2 Tabloyu örnekteki gibi tamamlayınız.

Fiil	Geçmiş Zaman	Şimdiki Zaman	Gelecek Zaman
okumak	okudu	okuyor	okuyacak
yazmak			
koşmak			
gülmek			
çizmek			

3 Parantez içindeki fiilleri uygun zamanda yazarak cümleleri tamamlayınız.

- Dün akşam ailemle birlikte film ..... . (izlemek)
- Şu anda öğretmenimiz masal ..... . (anlatmak)
- Gelecek hafta sonu pikniğe ..... . (gitmek)
- Geçen yaz denizde çok ..... . (yüzmek)

4 Geçmiş zamanı kırmızıya, şimdiki zamanı yeşile, gelecek zamanı maviye boyayınız.

geldi | oynuyor | alacak | yemiş | uçuyor

gezecek | duydu | bakıyor | saklamış | seçecek

SAATLERİ OKUYORUM

1 Saatleri öğleden önce ve öğleden sonra olarak yazınız.



Öğleden önce	03.00
Öğleden sonra	15.00



Öğleden önce	.
Öğleden sonra	.

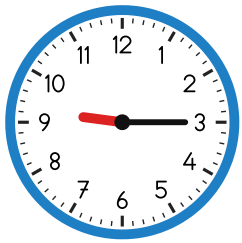

Öğleden önce	.
Öğleden sonra	.



Öğleden önce	.
Öğleden sonra	.



Öğleden önce	.
Öğleden sonra	.



Öğleden önce	.
Öğleden sonra	.



Öğleden önce	.
Öğleden sonra	.



Öğleden önce	.
Öğleden sonra	.

2 Verilen saatlere göre akrep ve yelkovanı çiziniz.

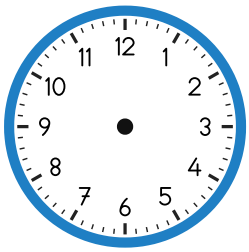

08.00

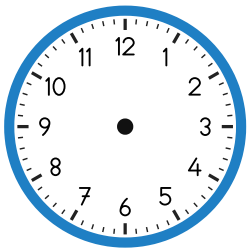

14.30

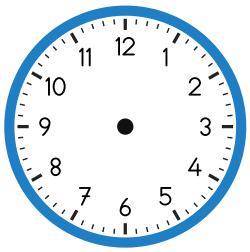

10.15

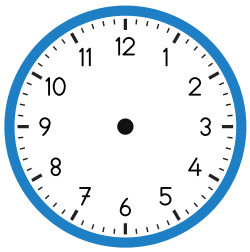

17.45

3 Saatlerin okunuşlarını doğru gösterimle eşleştiriniz.

Öğleden önce dokuz buçuk	○	○ 16.15
Öğleden sonra dördü çeyrek geçiyor	○	○ 10.40
Öğleden sonra yediye çeyrek var	○	○ 09.30
Öğleden önce on bire yirmi var	○	○ 18.45

ZAMANI ÖLÇÜYORUM

1 Zaman ölçme araçlarının adlarını kutudan seçerek altlarına yazınız.

kum saati • kol saati • takvim • kronometre • çalar saat







2 Noktalı yerlere uygun sayıları yazınız.

1 dakika = ... saniye	1 saat = ... dakika	1 gün = ... saat
1 hafta = ... gün	1 yıl = ... ay	Yarım saat = ... dakika
Çeyrek saat = ... dakika	2 saat = ... dakika	3 hafta = ... gün

3 Elif'in bir gününü inceleyiniz. Zamanı işaretleyip saati yazınız.

Elif ne yapıyor?	Saat	Öğleden önce	Öğleden sonra	Saati yaz
Sabah kahvaltısını yapıyor.		☐	☐	___ . ___
Okulda ilk dersine giriyor.		☐	☐	___ . ___
Okuldan sonra basketbol oynuyor.		☐	☐	___ . ___
Gece uykusuna yatıyor.		☐	☐	___ . ___

4 Boşluklara "saniye, dakika, saat, gün, ay" birimlerinden uygun olanı yazınız.

Dişlerimi 3 ..... fırçalarım.	Gece 9 ..... uyurum.
100 metre koşusu 20 ..... sürer.	Yaz tatili 3 ..... sürer.
Haftada 5 ..... okula giderim.	Bir ders 40 ..... sürer.

5 Problemleri çözünüz.

Mert ödevine saat 16.15'te başladı ve 45 dakika çalıştı. Mert ödevini saat kaçta bitirdi?

Saat 14.30'da başlayan çocuk filmi 16.10'da bitti. Film kaç dakika sürdü?

KAYAÇLAR, MADENLER VE MİNERALLER

1 Cümleleri kutudaki uygun kelimelerle tamamlayınız.

mineral • kayaç • maden • bor • yer kabuğu

- Üzerinde yaşadığımız, Dünya'nın en dış katmanına ..... denir.
- Yer kabuğunu oluşturan sert yapılara ..... denir.
- Kayaçların yapısını oluşturan doğal maddelere ..... denir.
- Ekonomik değeri olan kayaç ve minerallere ..... denir.
- Dünyada en fazla ..... rezervi ülkemizde bulunur.

2 Görsellerin adlarını (altın, kömür, bakır, mermer, elmas) altlarına yazınız.

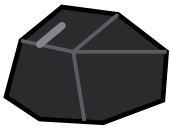
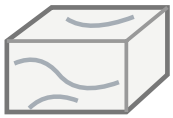
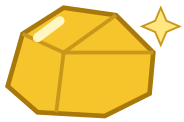

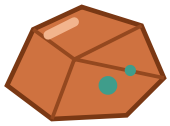

3 Madenleri ve mineralleri kullanım alanlarıyla eşleştiriniz.

Altın	○	○	Elektrik kablosu yapımı
Demir	○	○	Isınmada yakıt olarak
Bakır	○	○	Takı ve süs eşyası yapımı
Kömür	○	○	Temizlik ürünü ve cam yapımı
Bor	○	○	Bina ve araç yapımı

4 Doğru ifadelere "D", yanlış ifadelere "Y" yazınız.

( ) Bütün kayaçların rengi ve sertliği aynıdır.
( ) Madenler günlük hayatta birçok alanda kullanılır.
( ) Altın, gümüş ve demir birer madendir.
( ) Madenlerimiz sınırsızdır, hiç bitmez.
( ) Yemeklere kattığımız tuz bir mineraldir.

5 Evinizde madenlerden yapılmış üç eşya yazınız.



3.Sınıf Hafta Sonu Ödevleri 10.Hafta

Hayat Bilgisi

Ogretmendolabi.com

1 Aşağıdaki durumlarla karşılaşsaydınız ne yapardınız? Yazınız.



Tanımadığın biri sana şeker verip "Benimle gel." dedi.

.....

.....



Evde yalnızken kapı çaldı. Gelen kişiyi tanımıyorsun.

.....

.....



İnternette tanımadığın biri adresini ve fotoğrafını istedi.

.....

.....



Kalabalık bir alışveriş merkezinde aileni kaybettin.

.....

.....

2 İfadeler doğru ise "D", yanlış ise "Y" yolunu izleyiniz. Ulaştığınız çıkışı boyayınız.

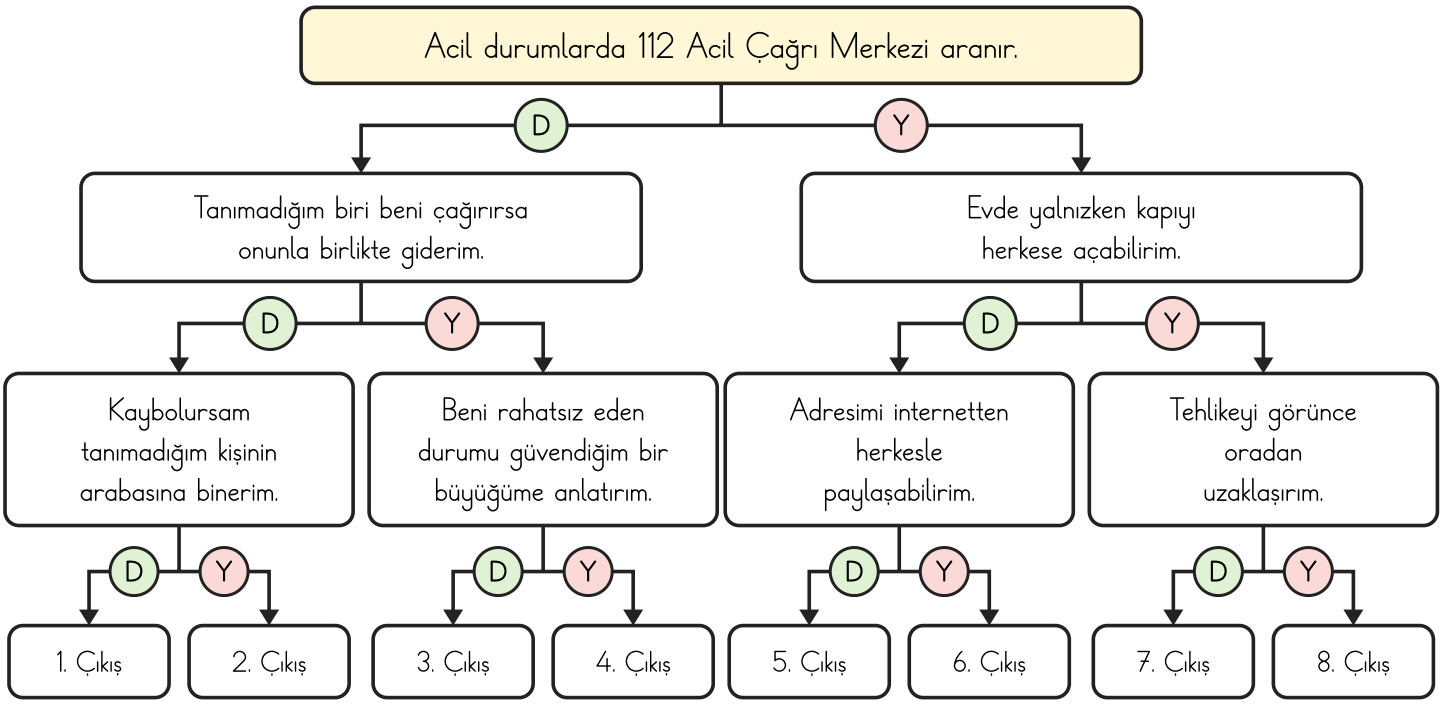

3 112'yi aradığımızda vermemiz gereken bilgileri boyayınız.

Adım ve soyadım	En sevdiğim renk	Bulunduğum yer
Ne olduğu	Tuttuğum takım	Yardıma ihtiyacı olan kişiler

4 Güvenliğiniz tehlikeye girdiğinde yardım isteyebileceğiniz dört kişi yazınız.









5 Doğru davranışlara "D", yanlış davranışlara "Y" yazınız.

( ) Tehlike anında "Hayır!" der, uzaklaşırım.

( ) Ailemin telefon numarasını bilirim.

( ) Tehlikeli durumu herkesten saklarım.

( ) Yangın çıkınca saklanırım.